Construction géométrique n°

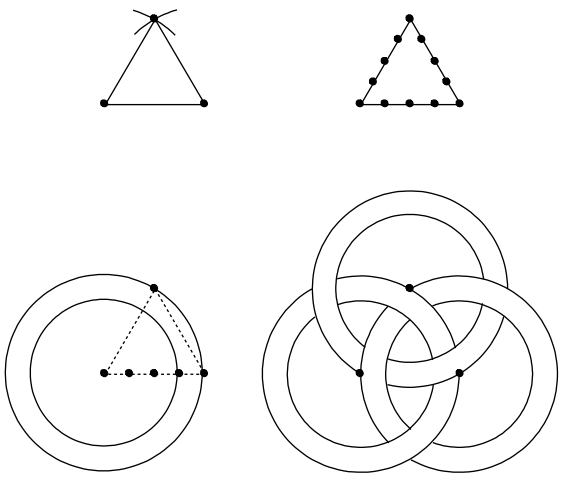

Figure 1 : Tracer un triangle équilatéral de côté 4 cm.
Figure 2 : Partager chacun de ses côtés en quatre segments de 1 cm.
Figure 3 : A partir de chaque sommet du triangle, tracer deux cercles (rayon 3 et 4 cm).
Figure 4 : Effacer les parties nécessaires pour obtenir **trois anneaux entrelacés**.

NOM :	Prénom :
respect de la consigne :	/ 2
précision des constructions :	/ 2
aspect final de la figure :	/ 1
	note sur 5 :





31/05/09